Konstrukce trojúhelníka

Podle věty sss

Autorem materiálu a všech jeho části, není-li uvedeno jinak, je Mgr. Jaroslav Hejný

Zadání + náčrt

- Narýsujte trojúhelník ABC se stranami délky a=7cm, b=6cm, c=8cm

Autorem materiálu a všech jeho části, není-li uvedeno jinak, je Mgr. Jaroslav Hejný

Zadání + náčrt

- Narýsujte trojúhelník ABC se stranami délky a=7cm, b=6cm, c=8cm
- Náčrt:

Zadání + náčrt

- Narýsujte trojúhelník ABC se stranami délky a=7cm, b=6cm, c=8cm
- Náčrt:



Zadání + náčrt

- Narýsujte trojúhelník ABC se stranami délky a=7cm, b=6cm, c=8cm
- Náčrt:

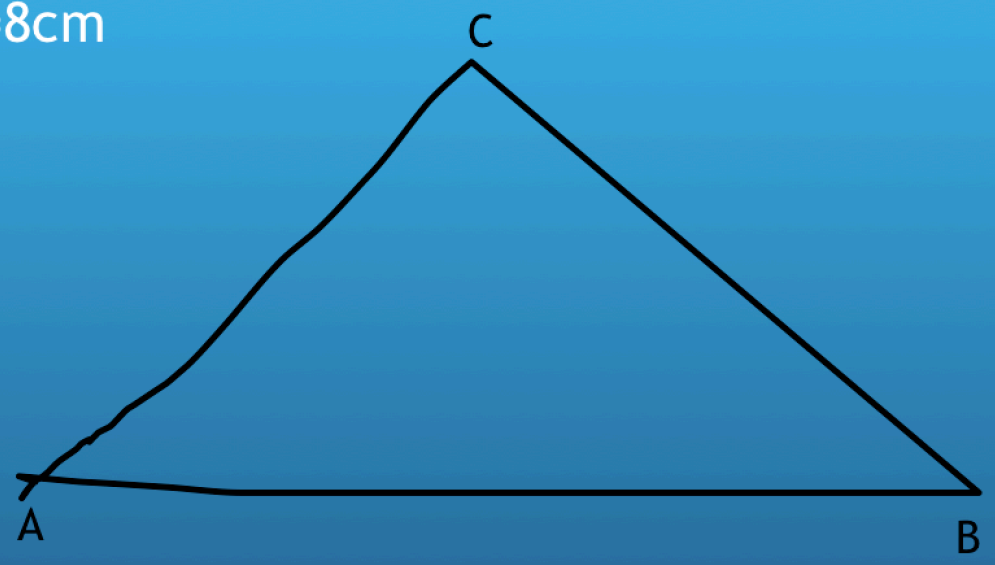

Zadání + náčrt

- Narýsujte trojúhelník ABC se stranami délky a=7cm, b=6cm, c=8cm
- Náčrt:

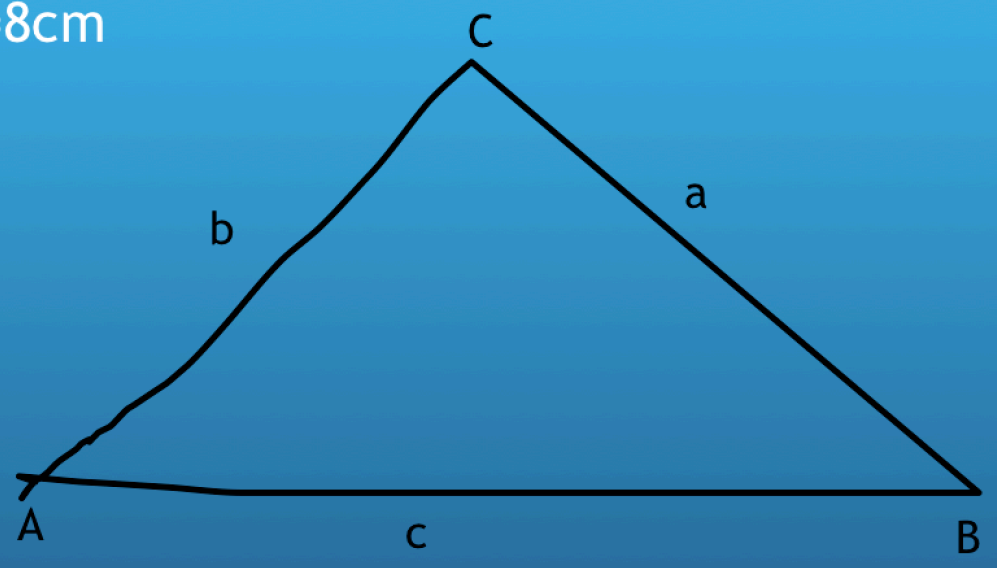

Rozbor

1. AB=c; c=8cm
2. k_1(A, b=6cm)
3. k_2(B, a=7cm)
4. $k_1 \cap k_2$ = C
5. $\triangle$ABC

Autorem materiálu a všech jeho části, není-li uvedeno jinak, je Mgr. Jaroslav Hejný

Konstrukce

Autorem materiálu a všech jeho části, není-li uvedeno jinak, je Mgr. Jaroslav Hejný

Konstrukce

1. AB=c; c=8cm

Konstrukce

1. AB=c; c=8cm
2. k_1(A, b=6cm)

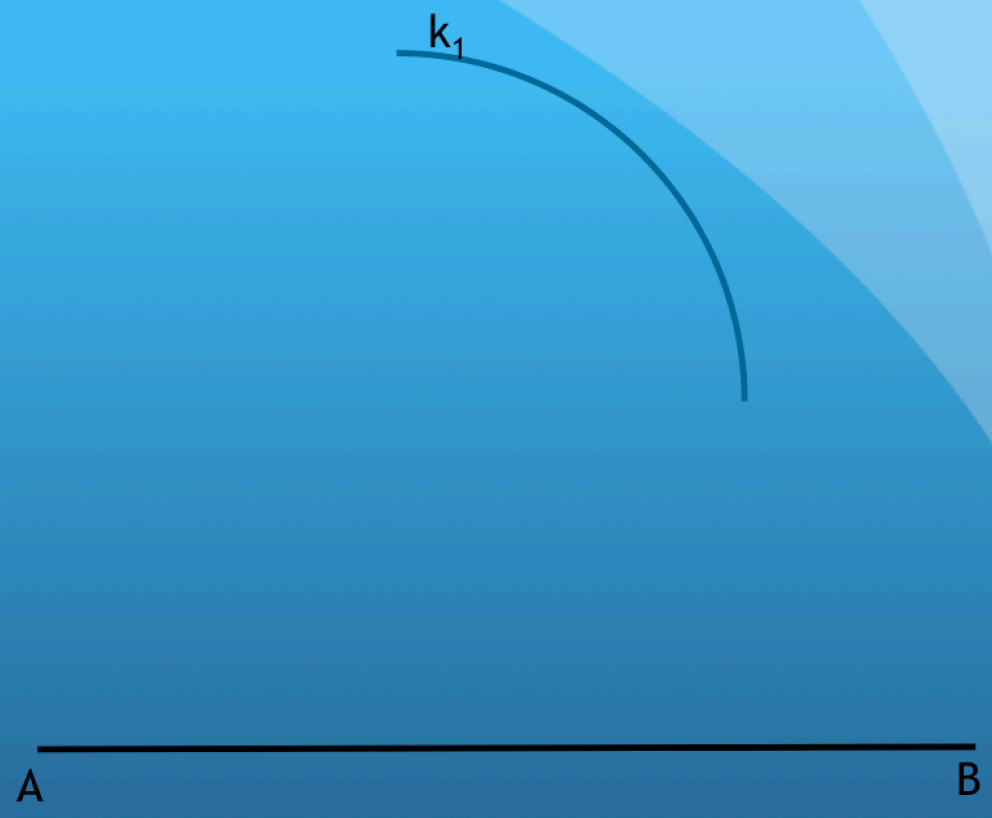

Konstrukce

1. AB=c; c=8cm
2. k_1(A, b=6cm)
3. k_2(B, a=7cm)

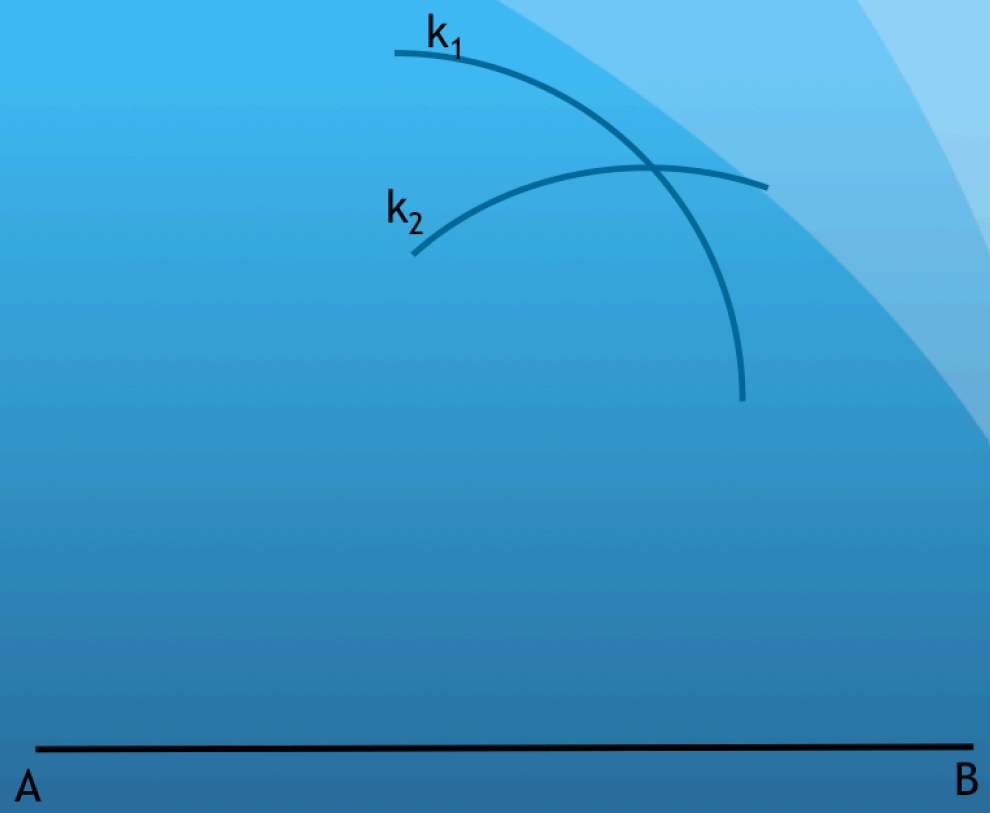

Autorem materiálu a všech jeho části, není-li uvedeno jinak, je Mgr. Jaroslav Hejný

Konstrukce

1. AB=c; c=8cm
2. k_1(A, b=6cm)
3. k_2(B, a=7cm)
4. $k_1 \cap k_2 = C$

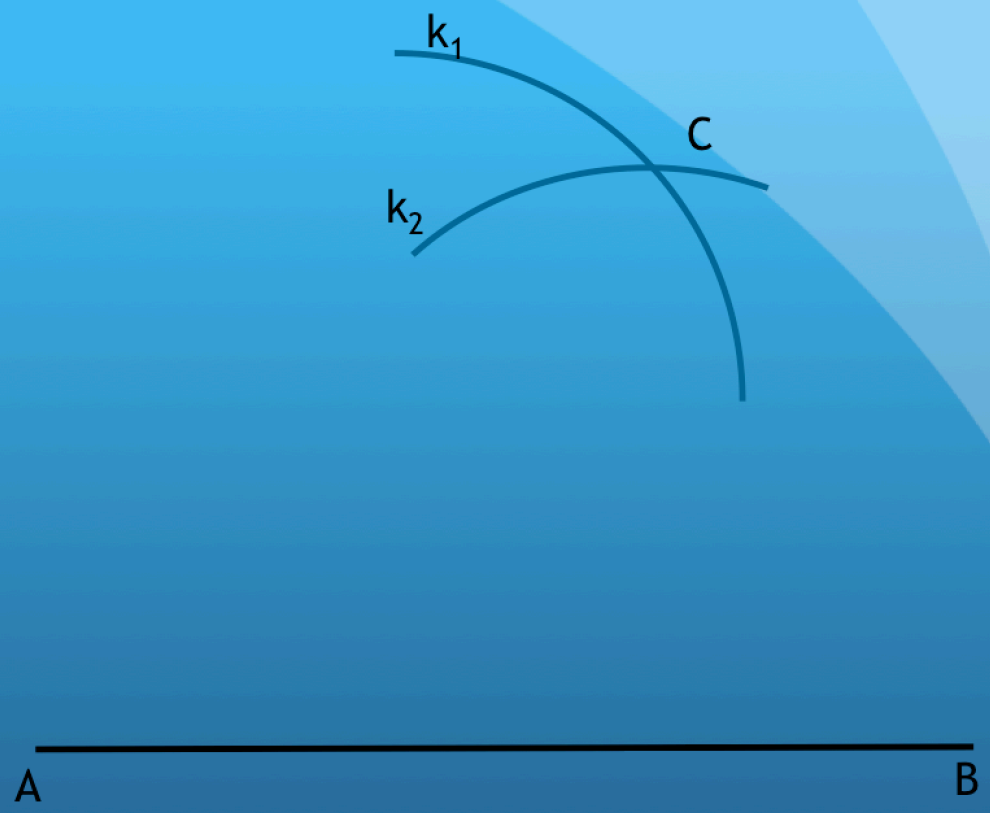

Konstrukce

1. AB=c; c=8cm
2. k_1(A, b=6cm)
3. k_2(B, a=7cm)
4. $k_1 \cap k_2 = C$
5. $\triangle$ABC

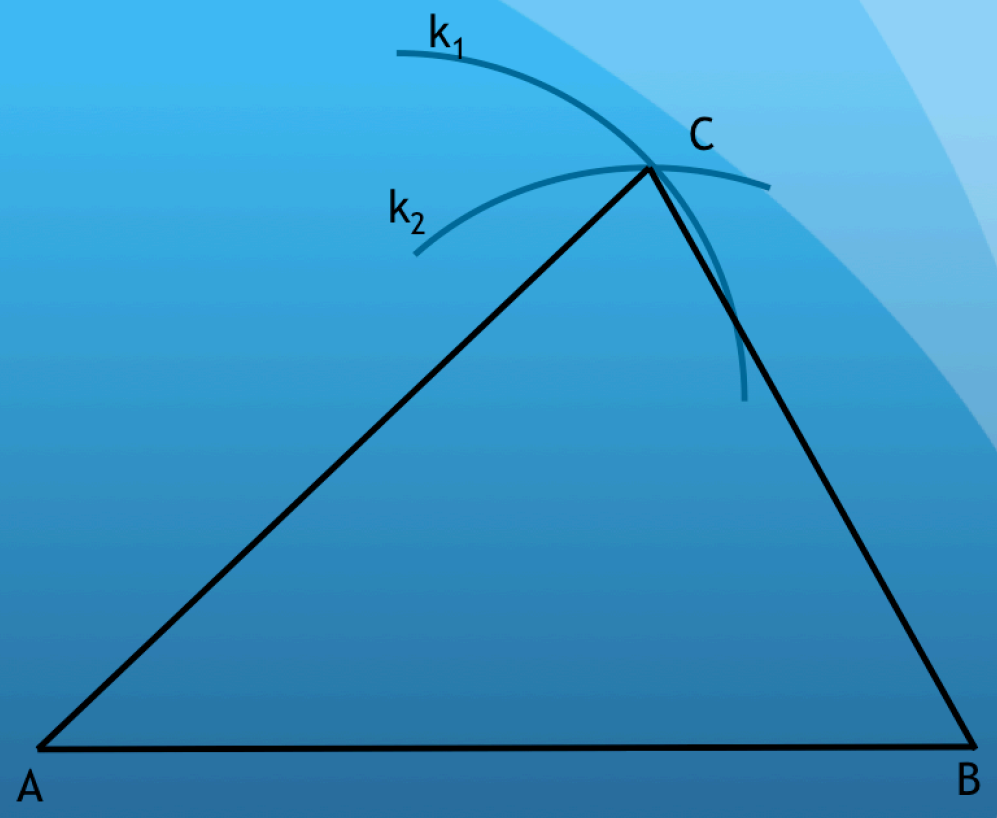

Diskuze

- Zadaná úloha má právě jedno řešení